392

22. 阅读下列材料（10分）

卫鞅曰："治世不一道，便国不法古。故汤武不循古而王，夏殷不易礼而亡。反古者不可非，而循礼者不足多。"孝公曰："善。"以卫鞅为左庶长，卒定变法之令。

——《史记·商君列传》

请回答：

（1）文中"卫鞅"指谁？"孝公"是哪国国君？（2分）

（2）文中反映卫鞅什么主张？为此，他采取了什么措施？（7分）

（3）文中的议论代表哪个阶级？（1分）

三、读图题（本题共2道小题，共20分）

23.看图回答（共20分）

（1）右图是中国古代社会的示意图，请你填出其中所缺内容。（6分）

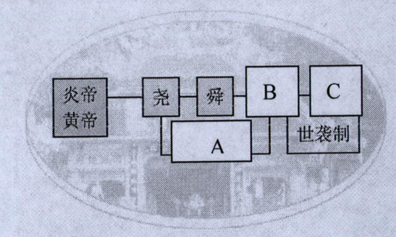

A_____

B_____

C_____

（2）中华文明历史悠久，历史文物可以帮助我们了解古代灿烂辉煌的文明。写出它们的名称。（4分）

（_____）



（_____）

（3）阅读下面的材料和图片，回答问题：（共10分）

"惟殷先人，有典有册。"

——《尚书》



请回答：

①结合右图说说这句话反映了我国什么朝代什么文字的产生？（2分）

②当时人们将这种文字刻在什么上面？（2分）

③对研究历史有什么价值？（6分）

四、简答题（本题共2道小题，共20分）

24. 比较半坡聚落和河姆渡聚落的异同。（共8分）
并说出他们的特征。（共2分）

25.春秋战国时期为什么会形成百家争鸣的局面？（共6分）
当时有哪些主要的学派？（共4分）