2012—2013 学年度上学期测试九年级历史试题

第 I 部分　选择题（共 30 分）

一、选择题（本题共 15 小题每题 2 分，请将正确答案的序号填入答题卡表格中）

1、恩格斯说“这是一次人类以往从来没有经历过的一次最伟大的、进步的改革，是一个需要巨人而且产生了巨人——在思维能力、热情和性格方面，在多才多艺和学识渊博方面的巨人的时代。”这个“巨人时代”指的是（　　）。

A. 启蒙运动　　B. 天文学的革命

C. 文艺复兴运动　　D. 物理学的发展

2、1992 年，一支船队为纪念航海家开辟新航路五百年，从西班牙出发，横渡大西洋，到达美洲的西印度群岛。当年开辟这条航线的航海家是（　　）。

A. 达·伽马　　B. 哥伦布　　C. 麦哲伦　　D. 迪亚士

3、英国女王伊丽莎白二世虽然是英国国家的象征，但她却不掌握国家的最高权利。这种政治制度源于英国历史上哪一部法律文献（　　）。

A.《大宪章》　B.《民法典》　C.《权利法案》　D.《人权宣言》

4、美国华盛顿国家档案馆里，有一个密封的充有氦气的玻璃箱，里面精心地保存着一份重要文件。它宣告英属十三个殖民地解除对英王的一切隶属关系，它是美国独立战争时期最重要的文献，它是（　　）

A.《权利法案》　B.《独立宣言》　C.《人权宣言》　D.《民法典》

5、右图的邮票是为了纪念世界上资格最老的汽车生产厂家而发行的。这个汽车厂家以高质量、高性能的豪华车而闻名于世。和邮票中的商标有关的人物是（　　）

A. 爱迪生　　B. 史蒂芬孙

C. 莱特兄弟　　D. 卡尔·本茨

6、美国内战前，南北两种经济形式矛盾的焦点是（　　）

A. 降低还是提高关税　　B. 是否建立资产阶级和种植园主的联合政权

C. 奴隶制的存废问题　　D. 扩大还是限制工业进口

7、有这样一位历史人物：他通过政变夺取政权，建立了帝国，颁布了《民法典》，曾一度控制了欧洲的大部分地区，最后却在滑铁卢惨败。请你猜猜这位风云人物是（　　）

A. 拿破仑　　B. 克伦威尔　　C. 路易十六　　D. 罗伯斯庇尔

8、见下图中的图示，方框内应该填写的内容是（　　）

A. 电力时代

B. 电器时代　　蒸汽时代 —19 世纪 70 年代末→ [　　]

C. 电能时代　　电力的广泛应用

D. 电气时代

9、“明治维新毁灭了旧的封建秩序，开创了新的时代，无论在日本历史还是世界历史都具有深远的影响”。这里的“新时代“指的是（　　）。

A. 蒸汽时代　　B. 殖民主义时代

C. 资本主义时代　　D. 电气时代

10、“请你们相信，为了保护地主的利益，凡是能做到的一切都做到了”。从亚历山大二世的这段话中，可以判断俄国农奴制改革的根本目的是（　　）

A. 制止人民革命　　B. 废除农奴制

C. 解放人民　　D. 最大限度保护地主利益

11、14—16 世纪，世界历史在欧洲的推动下，开始步入近代社会的门槛。下列相关的历史信息中搭配不正确的是（　　）。

A. 发现美洲新大陆——哥伦布

B. 开始把世界连成一个整体——新航路的开辟

C. 中世纪的最后一位诗人——莎士比亚

D. 以神为中心到以人为中心——文艺复兴

12、1872 年，法国科幻小说家儒勒·凡尔纳发表了著名作品《八十天环游地球》，讲述 19 世纪 70 年代一位英国绅士福克在八十天完成环球航行的有趣故事。你认为在此书中，福克完成此航行，最可能乘坐交通工具有：①火车　②轮船　③汽车　④飞机（　　）。

A. ①②　　B. ②③　　C. ①②③　　D. ①②③④

13、超级大国美国至今已经走过了 200 多年的漫漫征程，在美国资本主义确立、发展的过程中也曾遭遇过绊脚石，阻碍美国资本主义的发展。这些绊脚石是（　　）。

①英国的殖民统治　②封建制度　③农奴制度　④黑人奴隶制度

A. ①②　　B. ③④　　C. ①④　　D. ②③

14. 假如你生活在第二次工业革命时期，你在生活中不可能享受到的是（　　）。



A

B

C



D

15、对右图 b 处对应历史时期的叙述中，正确的是

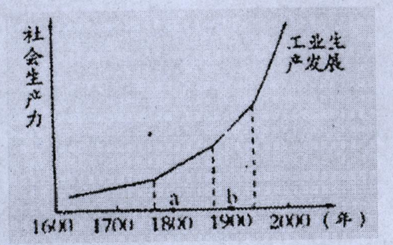

①这一时期电力作为新能源广泛利用

②石油的利用促进了内燃机、交通运输和化学工业的发展。

③电话、电报等新的通讯手段加强了世界各地的联系。

④资本主义的社会生产进入到一个前所未有的新时代

A. ①②③④　　B. ②③④　　C. ①②③　　D. ①②④