三、　填图、读图（表）综合分析题（本题有 3 小题，共 60 分）

19、读地球公转示意图（图一），完成下列问题（每空 2 分，共 18 分）

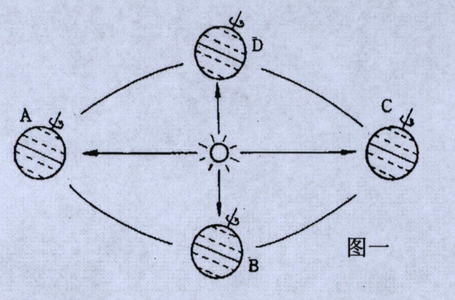

图一

（1）在图中适当位置用箭头画出地球公转的方向。

（2）12 月 22 日前后，地球将运行至_____（填字母）位置，此时大连正处于_____季，此时南极地区会发生_____（极昼、极夜）现象，_____（适合，不适合）科学考察。

（3）当太阳直射北回归线时，地球位于公转轨道上的_____处（填字母），这时大连的昼夜长短情况是_____；地球由公转轨道的 C 处向 D 处运动的过程中，北半球的白昼将变_____（长、短），获得的太阳光热逐渐_____（减少、增加）。

20、读经纬网示意图（图二）,回答下列问题：（每空 2 分，共 16 分）

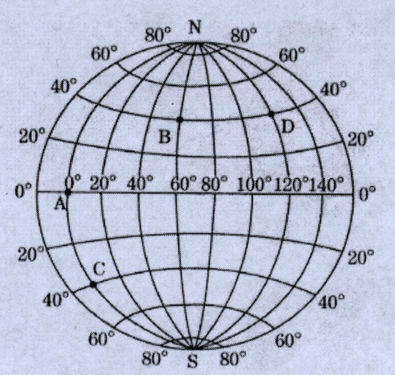

图二

(1)图中 A 点的 经度、纬度分别是:_____；B 点的经度、纬度分别是_____。

（2）ABCD 四点中，位于北半球的点是_____；位于南半球的点是_____；南北半

球界限的点是_____。最早看到日出的点是_____。

（3）B 点在 A 点的_____方向。C 点位于地球五带中的_____带。

21、读东西半球示意图，完成下列各问题：（每空 2 分，共 26 分）

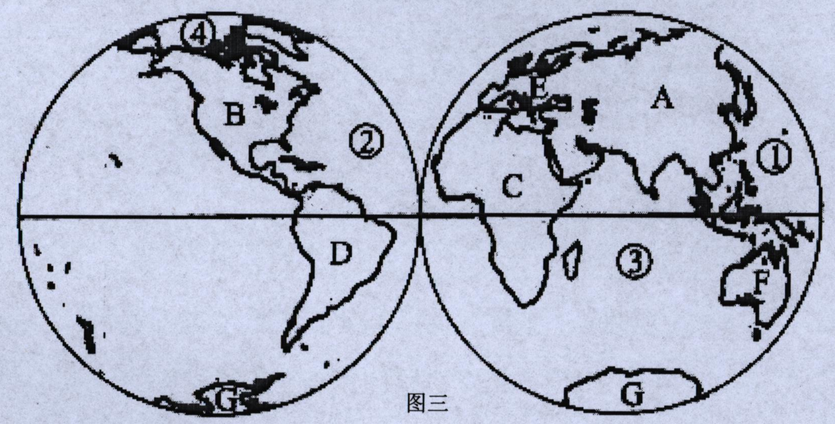

图三

（1）从地球仪上看，世界海陆分布很_____(均匀、不均匀)。陆地主要分布_____(北、南)半球；海洋主要分布在_____(东、西)半球。

（2）写出图中数码所代表的大洋名称：

①_____ ；②_____；③_____；④_____；

（3）写出图中字母所代表的大洲名称：

A_____；B_____；C_____；D_____；E_____；F_____；