19.如图所示，有轻质木板（质量可忽略不计）长为 L，右端放一重为 G 的物块，并用一竖直向上的力 F 拉着，左端可绕 O 点转动。当物块向左做匀速滑动时，木板始终在水平位置保持静止，则下图所示的拉力 F 与物块运动时间 t 的关系图中，正确的是 [ ]

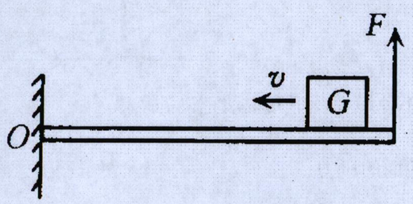

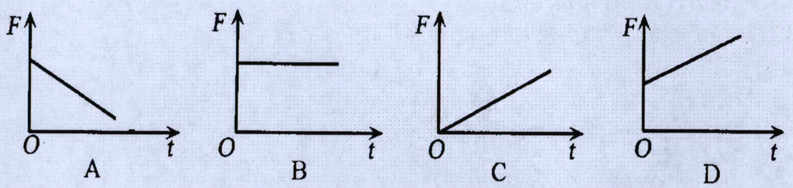
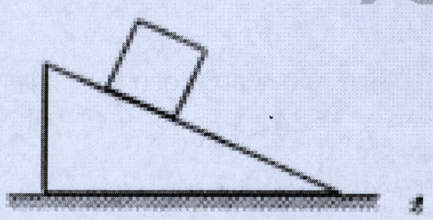
20.如图所示，物体静止在斜面上，画出它所受重力和支持力的示意图。