27/3 102
2×510

电学基础检测卷（2）

出卷：周　威
审卷：梁　娟

1.图所示的下列用品中，通常情况下属于导体的是　　[　　]

金属餐具
A.

橡胶轮胎
B.

陶瓷水壶
C.


塑料笔袋
D.

2.在图所示的四个电路中，当开关 S 闭合后，两灯都不能发光的电路是　　[　　]

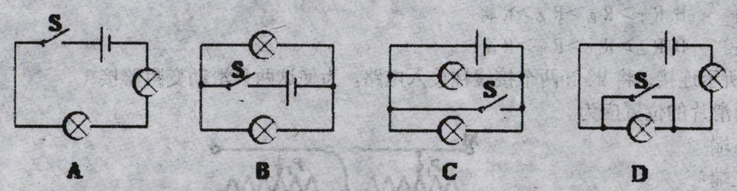

3.图中的几种用电器正常工作时的电流接近 4A 的是　　[　　]

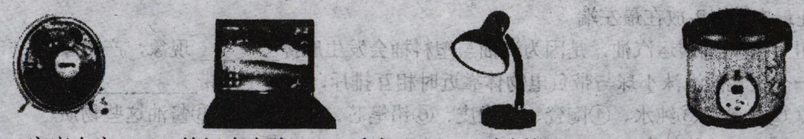

A.家庭电扇　B.笔记本电脑　C.台灯　D.电饭锅

4. 下列说法中正确的是　　[　　]

A. 只要有电荷运动就有电流
B. 只有正电荷定向移动才能形成电流
C. 正电荷定向移动的方向规定为电流的方向
D. 负电荷定向移动的方向规定为电流的方向

5. 小珊按如图电路进行探究实验，将电流表先后串联在 A、B、C 处，当开关闭合后，电流表的读数　　[　　]

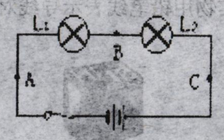

A. A 处最大
B. B 处最大
C. C 处最大
D. 三处都是一样大

6. 如图所示的电路中，电流表测量的是　　[　　]

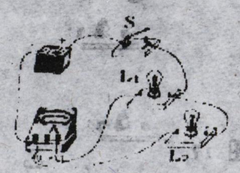

A. 通过灯 L_1 的电流
B. 通过灯 L_2 的电流
C. 通过灯 L_1、L_2 的电流之和
D. 电源供给电路的总电流